बृहन्मुंबई महानगरपालिका

PAGE NO.:
DATE: / /

शैक्षणिक प्रगत चाचणी

संकलित मूल्यमापन - १ 2018-19

कक्षा - उरी (तीसरी) विषय - गणित (लिखित)

विद्यार्थी का नाम -: रोलनं -:

शाला का नाम -: वर्ग -:

केंद्र -: तालुका -: जिल्हा -:

दिनांक -: / /

प्रश्न क्रमांक	1	2	3	4	5	एकूण	प्रा./मौ.	एकूण	शि. हस्ताक्षर
प्राप्त गुण									
कमाल गुण	6	6	6	6	6	30	10	40	

सभी प्रश्न हल करना अनिवार्य है। प्रत्येक उपप्रश्न एक अंक का है

प्रश्न १) अ) बडी संख्या को गोल करो।

२३ ४९ ८५ ७३

① ३२ ② ५८ ③ ३७ ④ ८५

ब) अगले महिने का नाम चौखट में लिखो।

अप्रैल	

① जून ② मई ③ दिसंबर ④ मार्च

क) छोटी संख्या से प्रारंभ कर बढते क्रम में लिखो।

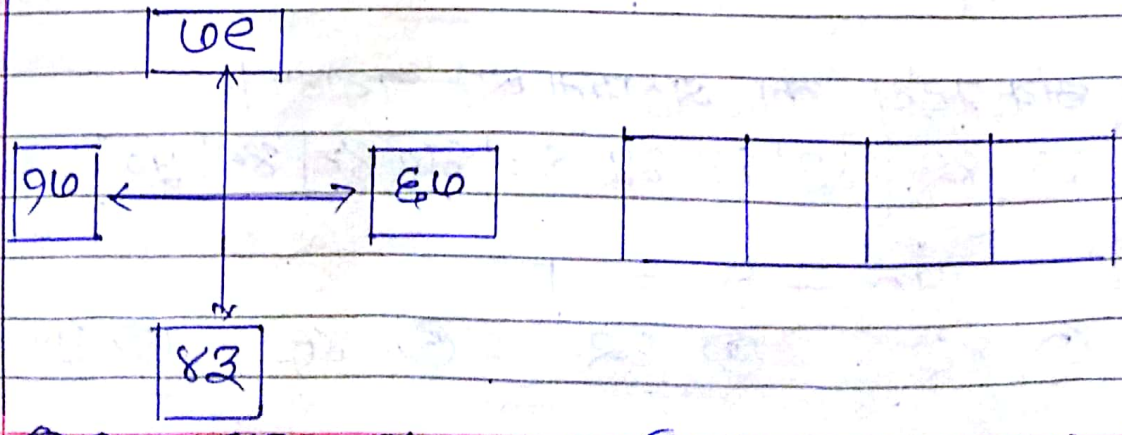

७९

१७ ← → ६७

४३

① १७, ४३, ६७, ७९, ② ६७, १७, ७९, ४३

Scanned by CamScanner

ड) शब्दों में लिखो।

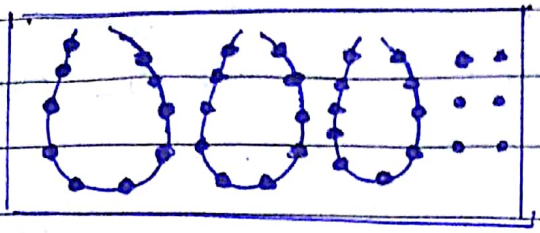

३६ =

① तिरसठ ② छत्तीस ③ छब्बीस ④ बासठ

इ) उचित चिह्न को चौखट में लिखो।

५०० ☐ ३००

① < ② = ③ + ④ >

फ) बीच की संख्या लिखो।

२२४		२२६

① २२५ ② ६२२ ③ ४२२ ④ ६२४

प्रश्न २) अ) रिक्त चौखट में उचित अंक लिखो।



① ५० ② २ ③ ५ ④ २०

ब) गुना. हल करो।

५	×	४	=	

① २४ ② २० ③ २८ ④ १६

क) अंकपट्टी की सहायता से घटाओ।

४१	४२	४३	४४	४५	४६	४७	४८	४९	५०

५० − १ = ☐

① ४६ ② ४२ ③ ४९ ④ ५१

Scanned by CamScanner

PAGE NO.:
DATE: / /

ङ) चौखट में उचित अंक लिखो।





① ३, ८ ② ०, ३ ③ ८, ० ④ ८, ३

च) अंको में लिखो।

चौसठ = ☐

① ६४ ② ९४ ③ ४६ ④ ४९

फ) विस्तारित रूप के आधार पर संख्या लिखो।

७००	+	२०	+	७	=	☐

① २७७ ② ७२७ ③ ७७२ ④ ७०७

१२) अ) जाड़ो।

द	इ
१	४
+ २	९

① २३ ② ३९ ③ ४३ ④ ४४

ब) किसी पहाड़ी क्षेत्र में गुलमोहर के ४५ और नीम के १२ पेड़ लगाए गए थे तो कुल कितने पेड़ लगाए गए?

द	इ

① ५८ ② ३२ ③ ८५ ④ २३

Scanned by CamScanner

क) विस्तारित रूप में लिखो।

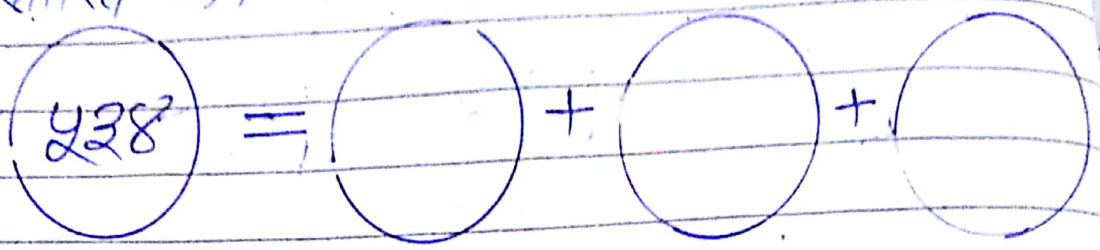

① ४+३+४ ② ४००+३०+४ ③ ४०+३+४ ④ ४००+३+०

ख) जोड़ो।

से	दे	इ
2	7	3
+ 7	8	0
+ 3	2	9

① ७४६ ② ६४७ ③ ६७३ ④ ६७४

ग) घटाओ।

से	दे	इ
७	७	९
− २	५	०

① ५२९ ② ९२५ ③ २९५ ④ ५९२

घ) दी गई संख्या से छोटी संख्या लिखो।



① १०२ ② २२४ ③ २०३ ④ २०२

ङ) नीचे दी गई आकृतियों में से अवंधित (खुली) आकृति पहचानो और गोल करो।



① ② D ③ ④ M

च) अधोरेखित संख्या के स्थानीय मान लिखो।

① १२५ → ☐

① २ ② ०२ ③ २० ④ २००

Scanned by CamScanner

क) किसी शाला में ३५४ लड़कियाँ व २५५ लड़के है तो कुल कितने विद्यार्थी शाला में है।

से	ए	ई

① ९६५ ② ५९९ ③ ५६९ ④ ६५९

ख) चौखटे में एकुण रुपये लिखो।

एकुण = ☐ रुपये

① ७५ ② ७० ③ ५७ ④ ५५

ग) दिए गए अंको के समूह से प्रत्येक अंक का केवल एक बार उपयोग करके बड़ी संख्या लिखो।

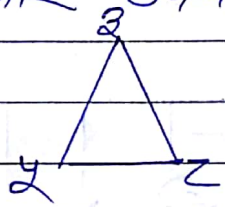

= ☐

① ५३८ ② ८५३ ③ ३५८ ④ ८३५

घ) चित्र देखो और गुना करो।

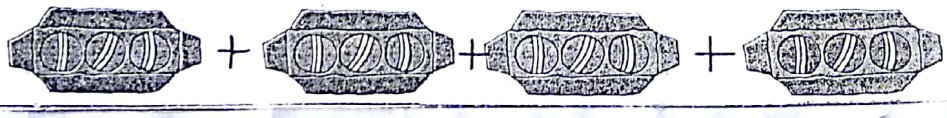

२	×	☐	=	९२

① ५ ② ३ ③ २ ④ ४

Scanned by CamScanner

PAGE NO.:
DATE: / /

प्रश्न 4 (भ) आकृतियाँ देखो और उत्तर लिखो।



उदाहरण -: चतुर्भुज को चार कोरें है,
त्रिभुज को ☐ कोरें

① 3 ② 4 ③ 9 ④ 2

ब) एक सप्ताह में 6 दिन होते है, तो 4 सप्ताह में कितने दिन होंगे?

☐ 4 सप्ताह
× ☐ 6 सप्ताह के दिन
☐ एकूण दिन

① 72 ② 47 ③ 28 ④ 29

क) नीचे दिए गए प्रतिरूपों को ध्यान में रखकर खालिज चौखट को भरो।

↑	→	↓	←	↑	

① ← ② → ③ ↓ ④ ↑

ड) कौनसी मानक इकाई द्रव मापने के लिए उपयोग में लाई जाती है।

① लिटर ② लंबाई ③ मीटर ④ किलोमीटर

इ) सही अंकों को चौखट में लिखो।

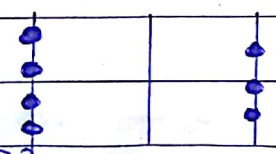

से	द	इ

① 3 4 0 ② 4 0 3 ③ 0 3 4 ④ 3 4 0

फ) 435 और 9 का योगफल क्या होगा?

☐

① 433 ② 434 ③ 436 ④ 432

उत्तर सूची

कक्षा :- 3री

विषय :- गणित

प्र.1 अ) 4

ब) 2

क) 1

ड 2

इ) 4

फ) 1

प्र.2 अ) 3

ब) 2

क) 3

ड) 4

इ) 1

फ) 2

प्र.3 अ) 3

ब) 1

क 2

ड) 4

इ) 1

फ) 3

प्र.4 अ) 1

ब) 4

क) 3

ड) 1

इ) 2

फ) 4

प्र.5 अ) 1

ब) 3

क) 2

ड) 1

इ) 2

फ) 3

Scanned by CamScanner